第1回サッカールールテストのコピー

設定 回答

第1回サッカールールテスト

説明 次の問題を解いてください。

回答を選択してください。 *

- 1 年生
- 2 年生
- 3 年生

あなたをおしえてください。 *

例えば：タロウ（5年2組）

問1. 下の図の中の線まで、正しいものを選びなさい。 *

- 線ア のみ / 線イ のみ / 線ウ のみ
- 線ア と 線イ / 線ア と 線ウ / 線イ と 線ウ
- 線ア と 線イ と 線ウ / 2 つ

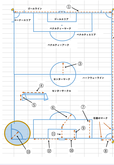

問2. 下の図の中の線まで、正しいものを選びなさい。 *

- 線ア のみ / 線イ のみ / 線ウ のみ
- 線ア と 線イ / 線ア と 線ウ / 線イ と 線ウ
- 線ア と 線イ と 線ウ / 2 つ

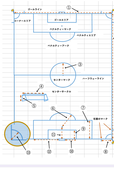

問3. 下の図の中の線まで、正しいものを選びなさい。 *

- 1 つのみ
- 2 つのみ
- 3 つ全て

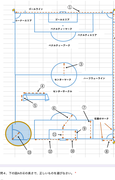

問4. 下の図の中の線まで、正しいものを選びなさい。 *

- 1 つのみ
- 2 つのみ
- 3 つ全て

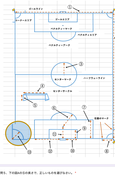

問5. 下の図の中の線まで、正しいものを選びなさい。 *

- 1 つのみ
- 2 つのみ
- 3 つ全て

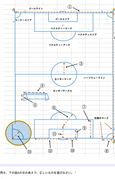

問6. 下の図の中の線まで、正しいものを選びなさい。 *

- 1 つのみ
- 2 つのみ
- 3 つ全て

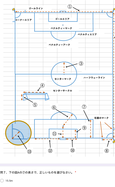

問7. 下の図の中の線まで、正しいものを選びなさい。 *

- 1 つのみ
- 2 つのみ
- 3 つ全て

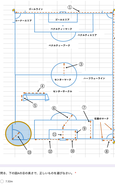

問8. 下の図の中の線まで、正しいものを選びなさい。 *

- 1 つのみ
- 2 つのみ
- 3 つ全て

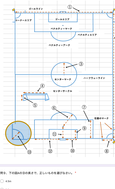

問9. 下の図の中の線まで、正しいものを選びなさい。 *

- 1 つのみ
- 2 つのみ
- 3 つ全て

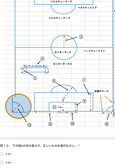

問10. 下の図の中の線まで、正しいものを選びなさい。 *

- 1 つのみ
- 2 つのみ
- 3 つ全て

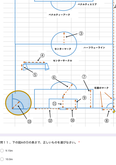

問11. 下の図の中の線まで、正しいものを選びなさい。 *

- 1 つのみ
- 2 つのみ
- 3 つ全て

問12. 下の図の中の線まで、正しいものを選びなさい。 *

- 1 つのみ
- 2 つのみ
- 3 つ全て

問13. 下の図の中の線まで、正しいものを選びなさい。 *

- 1 つのみ
- 2 つのみ
- 3 つ全て



問14. 下の図の中の線まで、正しいものを選びなさい。 *

- 1 つのみ
- 2 つのみ
- 3 つ全て



問15. 下の図の中の線まで、正しいものを選びなさい。 *

- 1 つのみ
- 2 つのみ
- 3 つ全て

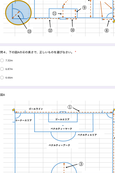

問16. 下の図の中の線まで、正しいものを選びなさい。 *

- 1 つのみ
- 2 つのみ
- 3 つ全て



問17. 下の図の中の線まで、正しいものを選びなさい。 *

- 1 つのみ
- 2 つのみ
- 3 つ全て



問18. 下の図の中の線まで、正しいものを選びなさい。 *

- 1 つのみ
- 2 つのみ
- 3 つ全て



問19. 下の図の中の線まで、正しいものを選びなさい。 *

- 1 つのみ
- 2 つのみ
- 3 つ全て



問20. 下の図の中の線まで、正しいものを選びなさい。 *

- 1 つのみ
- 2 つのみ
- 3 つ全て

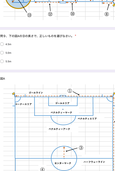

問21. 下の図の中の線まで、正しいものを選びなさい。 *

- 1 つのみ
- 2 つのみ
- 3 つ全て



問22. 下の図の中の線まで、正しいものを選びなさい。 *

- 1 つのみ
- 2 つのみ
- 3 つ全て

問23. 下の図の中の線まで、正しいものを選びなさい。 *

- 1 つのみ
- 2 つのみ
- 3 つ全て

問24. 下の図の中の線まで、正しいものを選びなさい。 *

- 1 つのみ
- 2 つのみ
- 3 つ全て

問25. 下の図の中の線まで、正しいものを選びなさい。 *

- 1 つのみ
- 2 つのみ
- 3 つ全て

問26. 下の図の中の線まで、正しいものを選びなさい。 *

- 1 つのみ
- 2 つのみ
- 3 つ全て

問27. 下の図の中の線まで、正しいものを選びなさい。 *

- 1 つのみ
- 2 つのみ
- 3 つ全て

問28. 下の図の中の線まで、正しいものを選びなさい。 *

- 1 つのみ
- 2 つのみ
- 3 つ全て

問29. 下の図の中の線まで、正しいものを選びなさい。 *

- 1 つのみ
- 2 つのみ
- 3 つ全て

問30. 下の図の中の線まで、正しいものを選びなさい。 *

- 1 つのみ
- 2 つのみ
- 3 つ全て

問31. 下の図の中の線まで、正しいものを選びなさい。 *

- 1 つのみ
- 2 つのみ
- 3 つ全て

問32. 下の図の中の線まで、正しいものを選びなさい。 *

- 1 つのみ
- 2 つのみ
- 3 つ全て

問33. 下の図の中の線まで、正しいものを選びなさい。 *

- 1 つのみ
- 2 つのみ
- 3 つ全て

問34. 下の図の中の線まで、正しいものを選びなさい。 *

- 1 つのみ
- 2 つのみ
- 3 つ全て

問35. 下の図の中の線まで、正しいものを選びなさい。 *

- 1 つのみ
- 2 つのみ
- 3 つ全て

問36. 下の図の中の線まで、正しいものを選びなさい。 *

- 1 つのみ
- 2 つのみ
- 3 つ全て

問37. 下の図の中の線まで、正しいものを選びなさい。 *

- 1 つのみ
- 2 つのみ
- 3 つ全て

問38. 下の図の中の線まで、正しいものを選びなさい。 *

- 1 つのみ
- 2 つのみ
- 3 つ全て

問39. 下の図の中の線まで、正しいものを選びなさい。 *

- 1 つのみ
- 2 つのみ
- 3 つ全て

問40. 下の図の中の線まで、正しいものを選びなさい。 *

- 1 つのみ
- 2 つのみ
- 3 つ全て

問41. 下の図の中の線まで、正しいものを選びなさい。 *

- 1 つのみ
- 2 つのみ
- 3 つ全て

問42. 下の図の中の線まで、正しいものを選びなさい。 *

- 1 つのみ
- 2 つのみ
- 3 つ全て

12.5m

図A

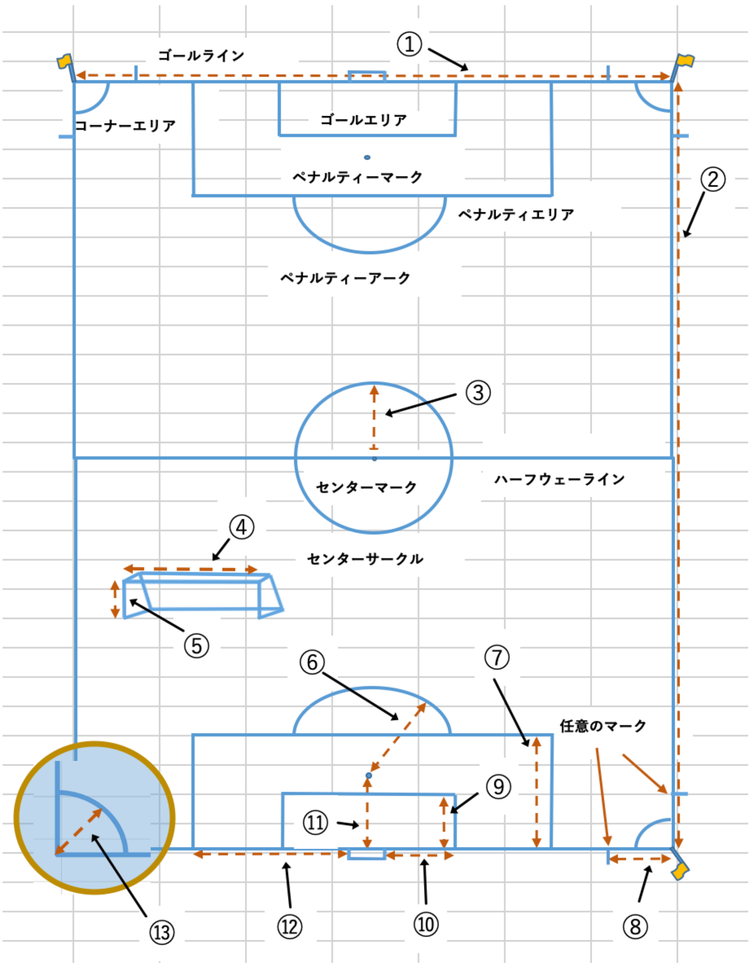

問１３、下の図Aの⑬の長さで、正しいものを選びなさい。 *

1.5m

1.2m

1.0m
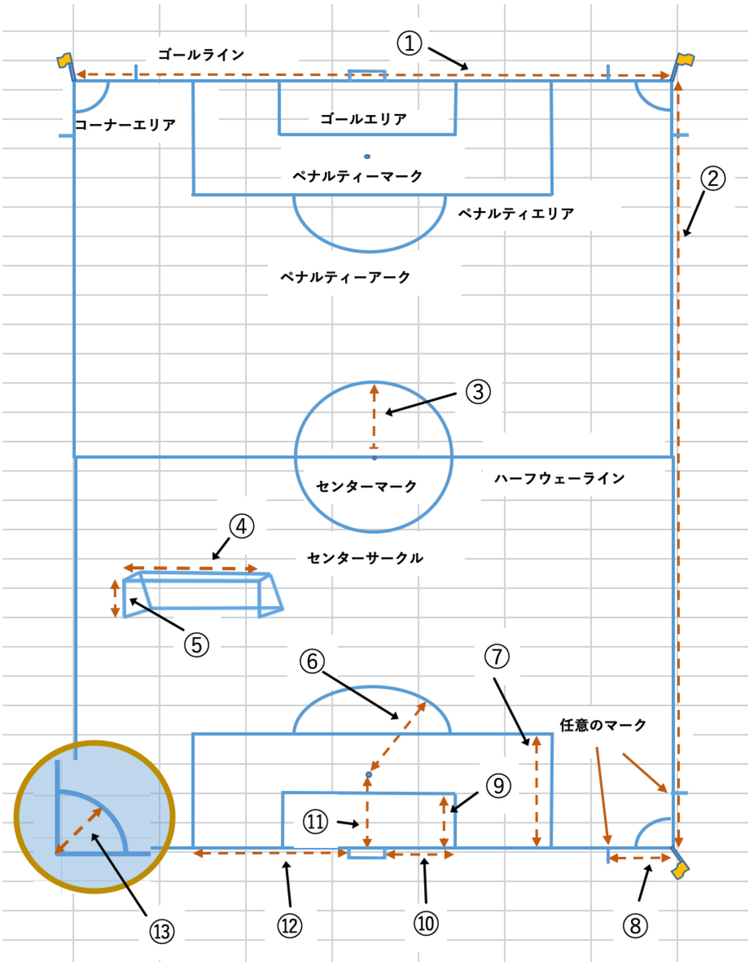
図A